ВСЕРОССИЙСКАЯ ОЛИМПИАДА ШКОЛЬНИКОВ 2017/18 гг.
ШКОЛЬНЫЙ ЭТАП
ТЕХНОЛОГИЯ
КУЛЬТУРА ДОМА И ДЕКОРАТИВНО – ПРИКЛАДНОЕ ТВОРЧЕСТВО
8 КЛАСС

Шифр участника_____

Инструкция по выполнению заданий

1. До начала выполнения тестового задания внимательно прочитайте полностью задание.
2. Выполняйте задания в предложенной последовательности.
3. Не задерживайтесь слишком долго, если не сможете выполнить определенное задание, переходите к следующему, лучше вернуться к нему в конце, если останется время.
4. В тестовом задании с выбором, правильных ответов может быть один или несколько. Знак «+» или «V» поставьте напротив правильного ответа.
5. Тестовое задание считается выполненным, если в нем отмечены или записаны все правильные ответы и не отмечено ни одного неправильного ответа.
6. За каждое правильно выполненное тестовое задание с 1 по 24 задание участник конкурса получает - 1 балл, если неправильно выполнено – 0 баллов. За творческое задание (25) вы можете получить 6 баллов.
7. По данному комплекту можно получить максимальное количество – 30 баллов.
8. Приступайте к выполнению задания.

Желаем удачи!

Моделирование

1.Вставьте пропущенное слово в высказывание известного французского модельера *Коко Шанель*: «Мода проходит, стиль_____ остается».

1

2. Соотнесите названия юбок и иллюстрации к ним:

А. Юбка-годе.
Б. Юбка-тюльпан.
В. Юбка-карандаш.
Г. Юбка-колокол.

1

1

2

3

4

Ответ: А 2, Б 4, В 3, Г 1.

Шифр участника_____

3.Как называется художник-модельер, работающий в индустрии высокой моды, в собственном ателье или же по контракту с ведущими салонами мод и создающий высокохудожественные модели одежды, а также аксессуары к ним.

Ответ: _____

Материаловедение

4.Вставьте пропущенное слово в предложение:

Животных дважды в год стригут машинкой или специальными ножницами и получают _____ массу неоднородной по качеству и загрязненной шерсти.

5.Обозначьте цифрами правильную последовательность технологии получения шелка.

☐ Сматывание шелковых нитей с коконов.

☐ Транспортировка коконов на шелкомотальную фабрику.

☐ Сушка горячим воздухом.

☐ Обработка паром для размягчения шелкового клея.

☐ Обработка коконов паром.

6.Какая из перечисленных тканей изготавливается из шелковых волокон:

а) креп-сатин;
б) драп;
в) байка;
г) бязь.

Ответ: _____

7.Соотнесите свойства тканей и их определения.

Подберите определение заданному свойству. В ответе запишите цифру из левого столбца и соответствующую правильному ответу букву из правого столбца:

1) прочность 2) теплозащитность 3) осыпаемость	А) способность нитей ткани выскальзывать по срезам, образуя бахрому;
	Б) способность сохранять тепло;
	В) способность нитей основы смещаться относительно уточных;
	Г) способность противостоять нагрузке.

Ответ: 1 – , 2 – , 3 –

ВСЕРОССИЙСКАЯ ОЛИМПИАДА ШКОЛЬНИКОВ 2017/18 гг.
ШКОЛЬНЫЙ ЭТАП
ТЕХНОЛОГИЯ
КУЛЬТУРА ДОМА И ДЕКОРАТИВНО – ПРИКЛАДНОЕ ТВОРЧЕСТВО
8 КЛАСС

Шифр участника_____

Рукоделие

8. Как называется ручная роспись тканей?

Ответ: батик 1

9. Определите вид глади по словосочетаниям.

а) Крупные мотивы; красный цвет с добавлением синего, зеленого и желтого; верхошов - _____;

б) Пейзажи и животные; тончайшие оттенки; шелк по шелку; цветы пионов и лотосов - художественная 0,5;

в) Тонкая прозрачная ткань; белые нитки; вышивка стягами; мелкий растительный орнамент. белая

Ответ: а) _____, б) _____, в) _____.

10.Какой основной шов используют при выполнении атласной глади:

(а) стебельчатый;
б) рококо;
в) крест;
г) тамбурный.

1

*Ответ:*_____

11. Как в вышивке называется лист бумаги в клетку, на котором с помощью цвета или условных значков нанесен рисунок?

Ответ: 1

Машиноведение

12.Определите, какому виду машинных швов какое условное обозначение соответствует.

А. Стачной вразутюжку.
Б. Окантовочный с закрытым срезом.
В. Вподгибку с открытым срезом.
Г. Вподгибку с закрытым срезом.
Д. Обтачной с расположением шва на сгибе.
Е. Окантовочный с открытым срезом.

1 2 3 4 5 6

0,5

Ответ: 1 Д, 2 А, 3 В, 4 Б, 5 Е, 6 Г.

Шифр участника_____

13.Какими стежками можно выполнить подшивание (прикрепление подогнутого края изделия потайными стежками, незаметными с лицевой стороны):
а) прямыми;
б) петельными;
(в) косыми;
г) крестообразными.
*Ответ:*_____

14. Какая мерка нужна для пошива блузы, платья или жакета из журнала мод?
Ответ: ОГ, ОТ
0,6

15. Юбки по конструкции бывают:
а) клиньевые;
б) прямые;
в) трапециевидные;
г) конические.
Ответ: а б г
1

Проектирование и изготовление изделий

16. Назовите требование, предъявляемое к изделию в процессе проектирования, не подписанное на схеме.

*Ответ:*_____

17. При выполнении творческого проекта ученица должна произвести расчет себестоимости изготовления изделия. Каковы будут затраты на материал, если 1 м ткани стоит 150 руб., а расход материала на изделие составил 70 см.

Ответ и расчёт: 70 · 0,7 = 150 · 0,7 = 105 р.
1

Шифр участника_____

Электротехника

18. В карманном фонаре используется электрическая лампочка, рассчитанная на напряжение 3,5 В и три гальванических элемента, соединенных между собой:

1) параллельно;
2) последовательно;
3) смешано;
4) перекрёстно.

*Ответ:*_____

19. Включать и выключать электроприборы можно только:

1) в диэлектрических перчатках;
2) сухими руками, берясь за корпус вилки;
3) потянув за шнур;
4) предварительно отключив электричество в помещении.

*Ответ:*_____

Кулинария

20. Страна, в которой традиционно в 5 часов дня устраивают чаепитие:

а) Италия;
б) Франция;
в) Англия;
г) Япония.

*Ответ:*_____

21. Срок хранения пастеризованного молока:

а) до шести месяцев;
б) от двух до пяти суток;
в) от пяти до четырнадцати суток.

*Ответ:*_____

22. Верны ли следующие утверждения:

А. Кисломолочные продукты благотворно влияют на организм человека, они улучшают обмен веществ.

Б. Кисломолочные продукты благотворно влияют на организм человека, они улучшают пищеварение.

Обведите номер верного ответа.

1) верно только А.
2) верно только Б.
3) верны оба утверждения.
4) неверны оба утверждения.

ВСЕРОССИЙСКАЯ ОЛИМПИАДА ШКОЛЬНИКОВ 2017/18 гг.
ШКОЛЬНЫЙ ЭТАП
ТЕХНОЛОГИЯ
КУЛЬТУРА ДОМА И ДЕКОРАТИВНО – ПРИКЛАДНОЕ ТВОРЧЕСТВО
8 КЛАСС

Шифр участника_____

3.Установите соответствие между видом теста и изделием из него.

	Тесто		Изделие
1	Дрожжевое	А	Пирожное «Эклер»
2	Бисквитное	Б	Коврижка
3	Заварное	В	Пирожное «Буше»
4	Пряничное	Г	Торт «Наполеон»
5	Слоеное	Д	Расстегай

Ответ: 1 А, 2 В, 3 А, 4 Б, 5 Г.

24.Как называется стол, когда хозяева не обслуживают гостей за столом, но каждый обслуживает себя сам.

Ответ: _____

25.**Творческое задание**

Творческое задание. Вам предложны детали кроя юбки.

1) подпишите на деталях кроя (рис.1) названия деталей и линии середины деталей (1,2,3,4,5);

2) укажите конструкцию юбки и ее особенности;

3) по деталям кроя выполните эскиз юбки в цвете;

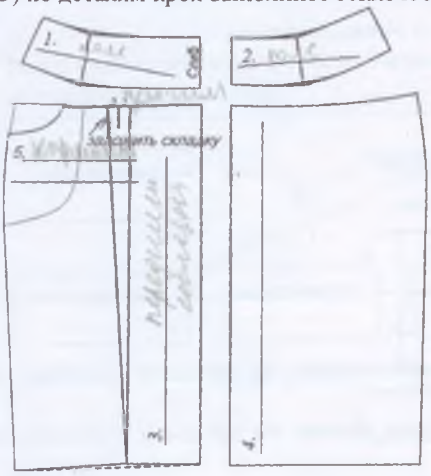

1) рис.1

2) Это юбка прямая, она имеет складки

_____

3) эскиз юбки

ВСЕРОССИЙСКАЯ ОЛИМПИАДА ШКОЛЬНИКОВ 2017/18 гг.
ШКОЛЬНЫЙ ЭТАП
ТЕХНОЛОГИЯ
КУЛЬТУРА ДОМА И ДЕКОРАТИВНО – ПРИКЛАДНОЕ ТВОРЧЕСТВО
8 КЛАСС

Шифр участника_____

Оценка задания:

1) названия деталей и линии середины деталей (1.2.3.4) -2 балла;
2) определение конструкции юбки и ее особенностей – 2 балла;
3) эскиз юбки в цвете – 2 балла

Итого: 6 баллов

Практическая работа «Моделирование юбки»

Инструкция

1. Внимательно прочитайте описание модели и рассмотрите эскиз.
2. Найдите различия с базовой конструкцией юбки.
3. В соответствии с эскизом нанесите новые линии фасона и обозначьте ваши действия по моделированию на чертеже основы юбки. Используйте для этого стрелки, значки, слова и т.д.
4. Перенесите линии фасона на шаблон из цветной бумаги.
5. Изготовьте из цветной бумаги детали выкройки для раскладки на ткани.
6. Аккуратно наклейте детали выкройки на лист «Результат моделирования».
7. Нанесите на детали выкройки необходимые надписи для раскроя.
8. Максимальное количество баллов за практическую работу - 20 баллов
9. На выполнение работы дается 60 минут.

Описание модели: юбка прямая с отрезной оборкой и рельефами на переднем и заднем полотнищах.

Порядок выполнения работы:

1. На основу чертежа прямой юбки нанести линии фасона.
2. Выполните моделирование.

Изготовьте из цветной бумаги лекала для раскладки на ткани. Наклейте лекала на чистый лист формат А 4.

ВСЕРОССИЙСКАЯ ОЛИМПИАДА ШКОЛЬНИКОВ 2017/18 гг.
ШКОЛЬНЫЙ ЭТАП
ТЕХНОЛОГИЯ
КУЛЬТУРА ДОМА И ДЕКОРАТИВНО – ПРИКЛАДНОЕ ТВОРЧЕСТВО
8 КЛАСС

Шифр участника_____

Критерии оценки практического задания.

Критерии	Баллы
Нанесение линий фасона на переднем полотнище	2
Нанесение линий фасона на заднем полотнище	2
Указание линий талии и бедер, линии низа, линии середины переда и спинки, боковой линии, вытачки	7
Изготовление лекал (полный комплект деталей)	5
Нанесение названий деталей выкройки	2
Аккуратность выполнения работы	1
Соблюдение безопасных приемов труда	1
Итого:	**20**

ВСЕРОССИЙСКАЯ ОЛИМПИАДА ШКОЛЬНИКОВ 2017/18 гг.
ШКОЛЬНЫЙ ЭТАП
ТЕХНОЛОГИЯ
КУЛЬТУРА ДОМА И ДЕКОРАТИВНО – ПРИКЛАДНОЕ ТВОРЧЕСТВО
8 КЛАСС

Шифр участника_____

Шаблон для разрезания



10

ВСЕРОССИЙСКАЯ ОЛИМПИАДА ШКОЛЬНИКОВ 2017/18 гг.
ШКОЛЬНЫЙ ЭТАП
ТЕХНОЛОГИЯ
КУЛЬТУРА ДОМА И ДЕКОРАТИВНО-ПРИКЛАДНОЕ ТВОРЧЕСТВО
7 КЛАСС

Шифр участника 710

Инструкция по выполнению заданий

1. До начала выполнения тестового задания внимательно прочитайте полностью задание.
2. Выполняйте задания в предложенной последовательности.
3. Не задерживайтесь слишком долго, если не сможете выполнить определенное задание, переходите к следующему, лучше вернуться к нему в конце, если останется время.
4. В тестовом задании с выбором, правильных ответов может быть один или несколько. Знак «+» или «V» поставьте напротив правильного ответа.
5. Тестовое задание считается выполненным, если в нем отмечены или записаны все правильные ответы и не отмечено ни одного неправильного ответа.
6. Каждое правильно выполненное задание с 1 по 20 оценивается в 1 балл. Задание № 21 – 5 баллов.
7. Баллы, полученные вами за все выполненные задания, суммируются. Постарайтесь выполнить как можно больше заданий и набрать как можно больше баллов. Всего за работу можно получить 25 баллов.
8. На выполнение тестовых заданий олимпиады по технологии отводится 60 минут.

Желаем удачи!

Кулинария

1.*Отметьте знаком «+»* все санитарно – гигиенические требования:

+а) руки мойте с мылом;
б) проверьте исправность шнура перед выключением электроприбора;
+в) наденьте фартук;
+г) уберите волосы под головной убор;
д) включайте и выключайте электроприборы сухими руками

1

2. *Отметьте знаком «+» правильный ответ*
Кисломолочными продуктами являются:
а) молоко
+б) кефир
в) мороженое
+г) сметана

1

3. *Отметьте знаком «+» правильный ответ*
Манную крупу вырабатывают из зерновой культуры:

Шифр участника _____

+а) просо
б) овёс
в) пшеница

4. ***Отметьте знаком «+» правильный ответ***
Для свежей рыбы характерно:
+а) плотная консистенция, красные жабры
б) рыхлая консистенция, серые жабры

1

5. ***Отметьте знаком «+» правильный ответ***
Мороженую рыбу оттаивают:
+а) на воздухе, при комнатной температуре;
б) в горячей воде;
в) в микроволновой печи;
г) в духовом шкафу.

1

6. Вставьте пропущенное слово:

Кулинария..... - это искусство приготовления пищи.

1

Материаловедение

7. ***Отметьте знаком «+» правильный ответ***
К натуральным текстильным волокнам растительного происхождения относятся:
а) шёлк;
+б) лён;
+в) вискоза;
г) шерсть.

1

8. ***Отметьте знаком «+» правильные ответы***
К физиологическим (гигиеническим) свойствам тканей относятся:
+а) прочность;
+б) драппируемость;
в) гигроскопичность;
г) электростатичность.

9. ***Отметьте знаком «+» правильные ответы***
По назначению ткани классифицируются на группы:
+а) костюмные;
б) гламурные;

Шифр участника _____

+в) пальтовые;
+г) бельевые.

10. ***Отметьте знаком «+» правильные ответы***
К хлопчатобумажным тканям относятся:
а) фланель;
б) бязь;
+в) ситец;
+г) нейлон.

11. Какие символы подходят для ухода за изделиями из льняной ткани?

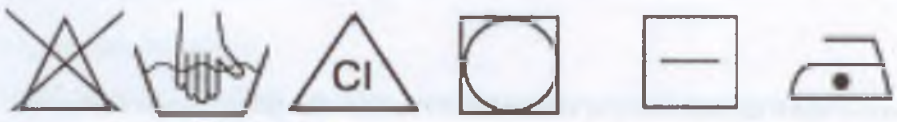

1 2 3 4 5 6

Машиноведение

12. Как называется одна из основных деталей швейной машины, которая имеет название детали одежды?
Эта деталь называется "Рукав"

13. ***Отметьте знаком «+» правильный ответ***
Кто предложил первый проект швейной машины в конце XV века?
а) изобретатель Тимонье,
+б) Леонардо да Винчи,
в) Уолтер Хант,
г) Элиос Ход

14. ***Отметьте знаком «+» правильный ответ***
При выполнении машинной строчки не участвует в формировании стежка:
а) игла,
б) лапка,
в) маховое колесо,
+г) челнок.

15. ***Отметьте знаком «+» правильный ответ***
В машинной игле ушко находится:

Шифр участника _____

а) в середине иглы
+б) рядом с остриём
в) там же, где у иглы для ручного шитья

1

Проектирование и изготовление изделий

16. ***Отметьте знаком «+» правильные ответы***

Какие мерки понадобятся нам для построения прямой юбки?

+а) Ст,
+б) Сб,
+в) Ди,
г) Дст,
д) Ог.

1

17. Обозначьте правильную последовательность расположения конструктивных линий сверху вниз:

а) линия талии,
б) линия колена,
в) линия шеи,
г) линия бёдер,
д) линия груди.

1

1 - В, 2- Д, 3- А, 4- Г, 5- Б.

18. ***Отметьте знаком «+» правильный ответ***

Застрочить – это:

+а) соединить две одинаковые детали машинной строчкой
б) закрепить подогнутый край машинной строчкой
в) соединить мелкую деталь с основной машинной строчкой

19. Вставьте пропущенное слово.
Согласно легенде король Пруссии Фридрих Великий, после осмотра своих войск, приказал пришить пуговицы **на рукава шинели, чтобы солдаты не вытирали свои носы об рукава.**

1

ВСЕРОССИЙСКАЯ ОЛИМПИАДА ШКОЛЬНИКОВ 2017/18 гг.
ШКОЛЬНЫЙ ЭТАП
ТЕХНОЛОГИЯ
КУЛЬТУРА ДОМА И ДЕКОРАТИВНО-ПРИКЛАДНОЕ ТВОРЧЕСТВО
7 КЛАСС

Шифр участника _____

20. Реши ребус

микроклимат



1

21. Творческое задание

Придумайте модель юбки ко дню рождения младшей сестренки:

а) прямая;
б) клиньевая;
в) коническая;
г) солнце.

1. Опишите и внесите ответы в таблицу:

а) по волокнистому составу;
б) по декоративной отделки и фасонным изменениям.

Назначение	Эскиз
Конструкция	
Волокнистый состав льняная юбка с добавлением дополнительно химического волокна	

ВСЕРОССИЙСКАЯ ОЛИМПИАДА ШКОЛЬНИКОВ 2017/18 гг.
ШКОЛЬНЫЙ ЭТАП
ТЕХНОЛОГИЯ
КУЛЬТУРА ДОМА И ДЕКОРАТИВНО-ПРИКЛАДНОЕ ТВОРЧЕСТВО
7 КЛАСС

Шифр участника _____

Декоративная отделка и фасонные изменения	Фасон летний. Отделка: юбка с декоративными оборками, узорами, пуговицами, и поясом

Оценка творческого задания

Критерии	Максимальное количество баллов	Фактическое количество баллов
Эскиз	1	
Описание по волокнистому составу	2	
Описание по декоративной отделке и фасонным изменениям	2	
Итого	5	5

Практическая работа «Выполнение окантовочного шва»

Инструкция

Внимательно прочитайте задание. На выполнение работы дается 60 минут.

Максимальное количество баллов за практическую работу - 20 баллов

Материалы и инструменты: рабочая коробка, ткань из хлопка однотонная 10 Х 25 см, и с мелким рисунком размером 20 Х 20 см, ножницы, ручная игла, линейка, мел, катушка ниток в цвет ткани, швейная машина, утюг, булавки, игольница.

Описание операции	Графическое изображение
Для этого нужно выкроить полоску ткани шириной 3-4 см, длиной 20 см, под углом 45 градусов к нитям основы;	
Выкроенную полоску ткани складываем изнанкой внутрь и проутюживаем;	

ВСЕРОССИЙСКАЯ ОЛИМПИАДА ШКОЛЬНИКОВ 2017/18 гг.
ШКОЛЬНЫЙ ЭТАП
ТЕХНОЛОГИЯ
КУЛЬТУРА ДОМА И ДЕКОРАТИВНО-ПРИКЛАДНОЕ ТВОРЧЕСТВО
7 КЛАСС

Шифр участника _____

Проутюженную полоску накладываем на лицевую сторону второй детали, к которой полоска будет притачиваться, срезы уравниваем. Притачиваем бейку на расстоянии 0,3-0, 5 см;	
Огибаем срезы шва и прокладываем другую строчку по лицевой стороне на расстоянии 0,1 см от края (рис.2); Окантовку проутюживаем.	

Критерии оценки практической работы
«Выполнение окантовочного шва»

10

№ п/п	Критерии оценки	Баллы	Баллы
1.	Организация рабочего места	2	2
2.	Качество выполнения раскроя (соблюдение долевой нити)	3	2
3.	Определение лицевой стороны ткани.	2	2
4.	Ширина шва притачивания +/- 1 мм.	2	1
5.	Наличие закрепок на концах шва (да/нет).	2	1
6.	Ширина обтачки 0,5 см (+/- 1 мм.)	3	1
7.	Отделочная строчка (да/нет).	2	
8.	ВТО изделия (да/нет).	2	–
9.	Соблюдение безопасных приемов труда.	2	1
	Итого:	20	10

ВСЕРОССИЙСКАЯ ОЛИМПИАДА ШКОЛЬНИКОВ 2017/18 гг.
ШКОЛЬНЫЙ ЭТАП
ТЕХНОЛОГИЯ
КУЛЬТУРА ДОМА И ДЕКОРАТИВНО-ПРИКЛАДНОЕ ТВОРЧЕСТВО
7 КЛАСС

Шифр участника _____

Практическое задание «Моделирование ночной сорочки»

Инструкция

1. Нарисуйте три оригинальные модели ночной сорочки.
2. Придумайте и предложите варианты отделки
3. Максимальное количество баллов за задание – 20 баллов
4. На выполнение работы дается 60 минут.

Модель 1	Модель 1	Модель 1
Варианты отделки: 1 Кружевная обдка 2 Аппликация 3 4	Варианты отделки: 1 Аппликация 2 Кружевная 3 обдка 4	Варианты отделки: 1 Чуды в виде 2 треугольников 3 4

Карта пооперационного контроля к практической работе «Моделирование ночной сорочки»

№п/п		Баллы	Баллы
1	Функциональное и принципиальное разнообразие моделей ночных сорочек и их композиционное решение	5	5
2	Сложность конструкций предложенных моделей ночных сорочек	5	4
3	Оригинальность предложенных идей	5	4
4	Оптимальный подбор отделки (не менее 4-х вариантов)	5	4
	Итого баллов	20	17

ВСЕРОССИЙСКАЯ ОЛИМПИАДА ШКОЛЬНИКОВ 2017/18 гг.
ШКОЛЬНЫЙ ЭТАП
ТЕХНОЛОГИЯ
КУЛЬТУРА ДОМА И ДЕКОРАТИВНО – ПРИКЛАДНОЕ ТВОРЧЕСТВО
5 КЛАСС

Шифр участника 52

Инструкция по выполнению заданий

1. До начала выполнения тестового задания внимательно прочитайте полностью задание.
2. Выполняйте задания в предложенной последовательности.
3. Не задерживайтесь слишком долго, если не сможете выполнить определенное задание, переходите к следующему, лучше вернуться к нему в конце, если останется время.
4. В тестовом задании с выбором, правильных ответов может быть один или несколько. Знак «+» или «V» поставьте напротив правильного ответа.
5. Тестовое задание считается выполненным, если в нем отмечены или записаны все правильные ответы и не отмечено ни одного неправильного ответа.
6. За каждое правильно выполненное тестовое задание с 1 по 9 задание участник конкурса получает - 1 балл, если неправильно выполнено – 0 баллов. За творческое задание (10) вы можете получить 6 баллов.
7. По данному комплекту можно получить максимальное количество – 15 баллов.
8. Приступайте к выполнению задания. Время выполнения задания 60 минут.

Желаем удачи!

Кулинария

1.Отгадайте загадки, определите к какой группе относится овощ и запишите ответ в таблицу.

1.Дом зелёный тесноват: узкий длинный, гладкий.
В доме рядышком сидяткруглые ребятки.
Осенью пришла беда -треснул домик гладкий,
Поскакали кто кудакруглые ребятки. Горох

2.Золотая голова - велика, тяжела.
Золотая голова - отдохнуть прилегла. тыквы

3. Щёки розовы, нос белый, в темноте сижу день целый.
А рубашка зелена, вся на солнышке она. редис

4.Сидит дед, в шубу одет, кто его раздевает, тот слёзы проливает. лук

ВСЕРОССИЙСКАЯ ОЛИМПИАДА ШКОЛЬНИКОВ 2017/18 гг.
ШКОЛЬНЫЙ ЭТАП
ТЕХНОЛОГИЯ
КУЛЬТУРА ДОМА И ДЕКОРАТИВНО – ПРИКЛАДНОЕ ТВОРЧЕСТВО
5 КЛАСС
Шифр участника 52

5.Неказиста, шишковата, а придёт на стол она, скажут весело ребята:
"Ну, рассыпчата, вкусна!" ~~[illegible]~~ картошка

6.Расселась барыня на грядке, одета в шумные шелка.
Мы для нее готовим кадки и крупной соли полмешка. капуста

0,5

Группы овощей					
корнеплоды	клубнеплоды	бобовые	луковичные	капуста	тыквенные
~~[illegible]~~ редко	~~[illegible]~~	~~[illegible]~~ горох	лук	капуста	тыква

2.Выберите правильный ответ.

Каково главное требование к санитарному состоянию кухни?
А) освещённость; Б) влажность; В) чистота.
Ответ : а

3. Установите соответствие:

	Вид посуды		Название посуды
1.	кухонная	А.	Чайник 3
2.	столовая	Б.	кастрюля 2
3.	чайная	В.	вилка 4
4.	Столовые приборы	Г.	салатник 1
		Д.	Чашка, блюдце 3
		Е.	ложка 4
		Ж	сковорода 1
		З.	тарелка 2

Ответ: 1-Б,Г,ж, 2-Б,З, 3-А,Д, 4-В,Е

0,5

Материаловедение

4.Назовите процессы, изображённые рисунках

1.

2.

Шифр участника 52

Ответ: 1-~~вертикально~~ предение, 2-~~вязальная машинка~~ ткачество

5. Какие ткани изготавливают из натуральных растительных волокон?

1. Хлопчатобумажные
2.Шерстяные
3. Шёлковые
4. Льняные

0,5

Ответ: 1, 2, 4

6. Вставьте пропущенное слово: лицевая сторона ткани имеет яркий рисунок, ровную поверхность.

1

Создание изделий из текстильных материалов

7. Посмотрите на рисунок и напишите название одежды.

1	2	3
4	5	6

ВСЕРОССИЙСКАЯ ОЛИМПИАДА ШКОЛЬНИКОВ 2017/18 гг.
ШКОЛЬНЫЙ ЭТАП
ТЕХНОЛОГИЯ
КУЛЬТУРА ДОМА И ДЕКОРАТИВНО – ПРИКЛАДНОЕ ТВОРЧЕСТВО
5 КЛАСС

Шифр участника 52

0,5

1 [illegible] 2 [illegible] 3 [illegible] 4 [illegible] педикан 5 [illegible] пальто 6 [illegible]

8.Выбери из перечисленных материалов и инструментов материалы для вышивки:

а) ткань;
б) нитки;
в) ножницы;
г) пяльцы.

0,5

Ответ: 0,2

9. Выберите правильный ответ.

При работе ножницы необходимо передавать:
а) кольцами вперёд, держась за разомкнутые лезвия
б) лезвиями вперёд, держась за кольца
в) кольцами вперёд, держась за сомкнутые лезвия
г) не имеет значения.

1

Ответ: 0

РОССИЙСКАЯ ОЛИМПИАДА ШКОЛЬНИКОВ 2017/18 гг.
ШКОЛЬНЫЙ ЭТАП
ТЕХНОЛОГИЯ
КУЛЬТУРА ДОМА И ДЕКОРАТИВНО – ПРИКЛАДНОЕ ТВОРЧЕСТВО
5 КЛАСС
Шифр участника 52

10. Творческое задание.

Выберите шаблоны цветов и листьев и постройте орнамент в круге. Инструменты и материалы: Бумага, ножницы, линейка, карандаш, цветные карандаши, клей.



ВСЕРОССИЙСКАЯ ОЛИМПИАДА ШКОЛЬНИКОВ 2017/18 гг.
ШКОЛЬНЫЙ ЭТАП
ТЕХНОЛОГИЯ
КУЛЬТУРА ДОМА И ДЕКОРАТИВНО – ПРИКЛАДНОЕ ТВОРЧЕСТВО
5 КЛАСС

Шифр участника 52

№	Критерии оценивания	Максимальный балл	Баллы по факту
1.	Композиция орнамента	2	2
2.	Ритмичность	2	2
3.	Аккуратность	2	2
	Всего:	6	6

РОССИЙСКАЯ ОЛИМПИАДА ШКОЛЬНИКОВ 2017/18 гг.
ШКОЛЬНЫЙ ЭТАП
ТЕХНОЛОГИЯ
КУЛЬТУРА ДОМА И ДЕКОРАТИВНО – ПРИКЛАДНОЕ ТВОРЧЕСТВО
5 КЛАСС

Шифр участника 52

Практическое задание «Вышивание по контуру»

Инструкция

Выполнить вышивку согласно инструкционной карте. Время выполнения – 120 мин.Инструменты и материалы:копировальная бумага, карандаш, ножницы, пяльцы, игла, нитки мулине"разного цвета, ткань однотонная светлых тонов размером 20×20 см.

Рисунок для вышивки



ВСЕРОССИЙСКАЯ ОЛИМПИАДА ШКОЛЬНИКОВ 2017/18 гг.
ШКОЛЬНЫЙ ЭТАП
ТЕХНОЛОГИЯ
КУЛЬТУРА ДОМА И ДЕКОРАТИВНО – ПРИКЛАДНОЕ ТВОРЧЕСТВО
5 КЛАСС
Шифр участника 52

Инструкционная карта. Вышивка по контуру

№	Описание операции	Изображение операции
1.	Отутюжить ткань для вышивки	
2.	Перевести рисунок на ткань с помощью копировальной бумаги.	
3.	Заправить ткань в пяльцы и хорошо её натянуть по долевой нити и по утку	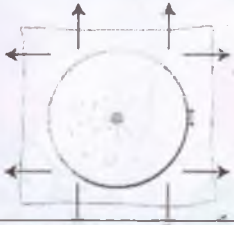
4.	Выполнить закрепление нити в начале работы.	
5.	Вышить внешний контур птички стебельчатым швом ниткой в 2 сложения.	
6.	Вышить внутренний контур грудки и головки тамбурным швом ниткой в 2 сложения	
7.	Отутюжить вышивку.	

ВСЕРОССИЙСКАЯ ОЛИМПИАДА ШКОЛЬНИКОВ 2017/18 гг.
ШКОЛЬНЫЙ ЭТАП
ТЕХНОЛОГИЯ
КУЛЬТУРА ДОМА И ДЕКОРАТИВНО – ПРИКЛАДНОЕ ТВОРЧЕСТВО
5 КЛАСС

Шифр участника_____

Критерии оценивания практической работы

№	Критерии оценивания	Максимальный балл	Баллы по факту
1.	Рисунок переведён точно	6	5
2.	Стежки и строчки ровные и аккуратные	10	6
3.	Изнаночная сторона без узлов и перетяжек	6	4
4.	Цветовая гамма ниток соответствует изображению	6	1
5.	Стежки выполнены в соответствии инструкцией	6	2
6.	Соблюдение правил техники безопасности	6	2
	итого	40	20

30

ВСЕРОССИЙСКАЯ ОЛИМПИАДА ШКОЛЬНИКОВ 2017/18 гг.
ШКОЛЬНЫЙ ЭТАП
ТЕХНОЛОГИЯ
КУЛЬТУРА ДОМА И ДЕКОРАТИВНО – ПРИКЛАДНОЕ ТВОРЧЕСТВО
8 КЛАСС

Шифр участника_____

Инструкция по выполнению заданий

1. До начала выполнения тестового задания внимательно прочитайте полностью задание.
2. Выполняйте задания в предложенной последовательности.
3. Не задерживайтесь слишком долго, если не сможете выполнить определенное задание, переходите к следующему, лучше вернуться к нему в конце, если останется время.
4. В тестовом задании с выбором, правильных ответов может быть один или несколько. Знак «+» или «V» поставьте напротив правильного ответа.
5. Тестовое задание считается выполненным, если в нем отмечены или записаны все правильные ответы и не отмечено ни одного неправильного ответа.
6. За каждое правильно выполненное тестовое задание с 1 по 24 задание участник конкурса получает - 1 балл, если неправильно выполнено – 0 баллов. За творческое задание (25) вы можете получить 6 баллов.
7. По данному комплекту можно получить максимальное количество – 30 баллов.
8. Приступайте к выполнению задания.

Желаем удачи!

Моделирование

1.Вставьте пропущенное слово в высказывание известного французского модельера *Коко Шанель*: «Мода проходит, стиль_____ остается».

1

2. Соотнесите названия юбок и иллюстрации к ним:

А. Юбка-годе.
Б. Юбка-тюльпан.
В. Юбка-карандаш.
Г. Юбка-колокол.

1

1

2

3

4

Ответ: А 2, Б 4, В 3, Г 1.